نام و نام خانوادگی: فاطمه محمدیان   ریاضی ششم   ۹۸/۱۰/۸

۱- الگوی زیر را ادامه دهید.

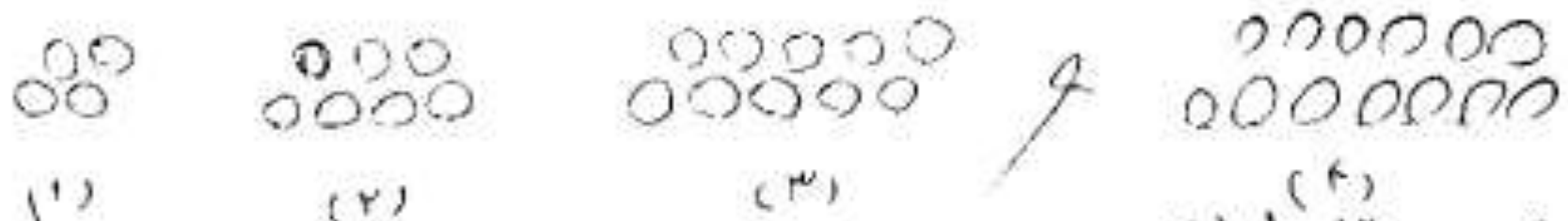

شکل ۱۷ از چند دایره ساخته شده؟

(۱×۳)+۱=۴ (۲×۳)+۱=۷ (۳×۳)+۱=۱۰ (۴×۳)+۱=۱۳ (۱۷×۳)+۱=۵۲

۲- کوچک‌ترین عدد سه رقمی که بر ۵ بخش‌پذیر باشد. (بدون تکرار)   ۱۰۵

۳- هفتاد و دومین مضرب عدد ۹ کدام است؟   ۷۲×۹=۶۴۸

☑ ۶۴۸   ☐ ۶۳۶   ☐ ۷۲۹   ☐ ۶۱۷

۴- عددی بر ۲ بخش‌پذیر است که رقم یکان آن ... است.

☐ ۲   ☐ ۴ و ۶   ☐ ۸   ☑ همهٔ موارد

۵- مربع عددی از خود آن بزرگ‌تر است قطعاً آن عدد ... است.

۶- کدام عدد صحیح است؟

☑ ۱۵۰-   ☐ $1\frac{15}{4}$ ☐ ۳/۱۴-   ☐ $\frac{2}{5}$

۷- فاصلهٔ بین اعداد ۲+ تا ۷- چند است؟

☐ ۲+   ☐ ۷-   ☐ ۷+   ☑ ۹

۸- قرینهٔ عدد ۳+ نسبت به ۲- کدام است؟

☐ ۵-   ☑ ۷-   ☐ ۶-   ☐ ۶+

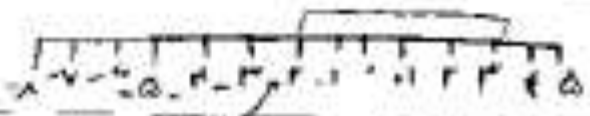

۹- بین کسر $\frac{2}{3}$ و $\frac{3}{4}$ چند کسر وجود دارد؟ (۳ کسر آن را بنویسید) بی‌نهایت

$\frac{6}{7}$ ، $\frac{9}{11}$ ، $\frac{8}{10}$

۱۰- ضرب را روی شکل نشان دهید.

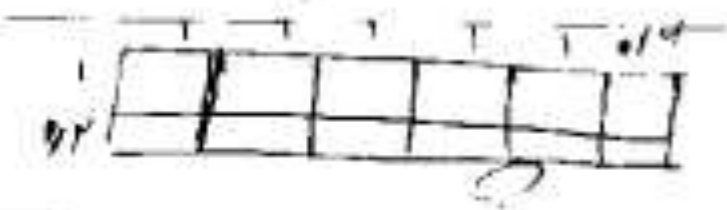

۰/۶×۱/۲=

۱۱- حاصل $(\frac{2}{3}\times\frac{9}{16})\div\frac{3}{8}$ برابر است با:

☐ ۶   ☑ $\frac{1}{4}$ ☐ صفر   ☐ $\frac{1}{3}$

نمونه سوال امتحانی بیشتر در -> blog.limoonad.com   فیلم‌های آموزش درسی در -> limoonad.com